Prénom : ..... **MESURES** Date : ..... / ..... / .....

Heure et minute.

1. Colorie chaque horloge de la même couleur que l'heure qui lui correspond.



12 h 30 | 10 h 15 | 06 h 45 | 05 h 55

2. Dessine les aiguilles sur les cadrans.



12 h 15 | 20 h 10 | 17 h 30 | 18 h 40

3. Voici les horaires d'ouverture et de fermeture de la bibliothèque.

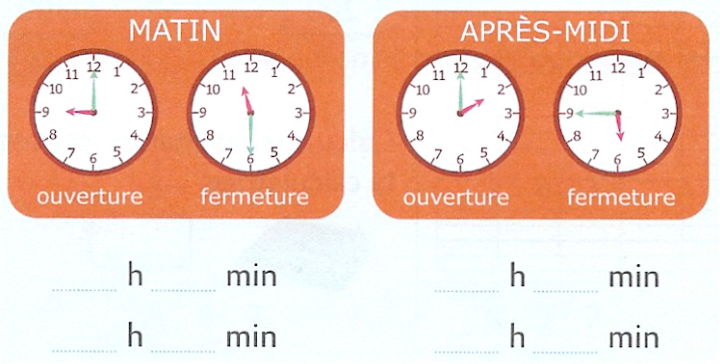

a) Ecris les heures sous les cadrans.

b) Rachel doit rendre des livres qu'elle a empruntés. Elle part à 11 h 15 de chez elle et met 10 minutes pour se rendre à la bibliothèque.

Arrivera-t-elle avant la fermeture ? Ecris ton calcul, puis réponds.

4. Observe la pendule et complète.



1 quart d'heure = ... minutes

2 quarts d'heure = ... minutes

2 quarts d'heure = ... demi-heure

1 demi-heure = ... minutes

3 quarts d'heure = ... minutes

2 demi-heures = ... heure

1 heure = ... minutes

Attention ! On écrit « une demi-heure », mais « une heure et demie ».

5. Pour se rendre au parc d'attractions, la famille de Léon a mis 1 h 15 et la famille de Carmen a mis 80 minutes.

Qui a mis le plus de temps ? Écris ton calcul, puis réponds.

6. Relie les durées qui sont identiques.

1 h 20

180 minutes

80 minutes

15 minutes

2 h 30

3 h 00

1 quart d'heure

1 h 50

110 minutes

7. Dessine les aiguilles sur les cadrans.

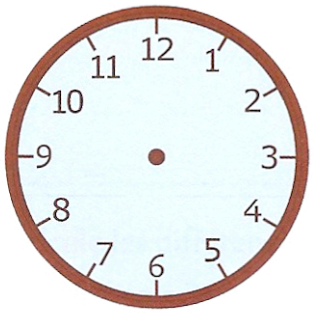

8 heures et demie

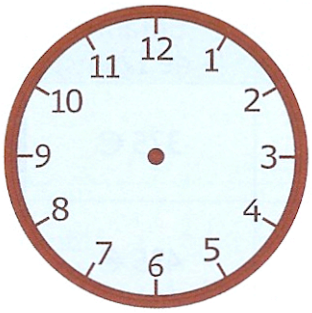

5 heures et quart

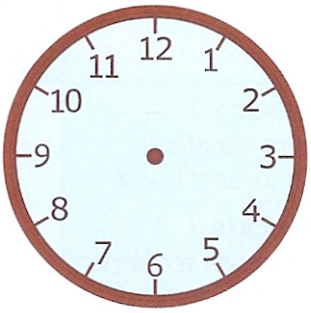

1 heure et quart